Adición

Nombre: _____

Grado: _____ Fecha: _____

1 **Lee y resuelve.**

- La tabla registra la cantidad de entradas vendidas en un zoológico.

Día	Niños	Adultos	Adultos mayores
Viernes	1.310	870	950
Sábado	2.000	190	1.000
Domingo	3.000	1.200	800

- ¿Cuántos niños asistieron el viernes, el sábado y el domingo?

_____

- ¿Cuántas personas asistieron el sábado?

_____

- ¿Cuántos adultos mayores asistieron el sábado y el domingo?

_____

- ¿Cuántas personas asistieron el sábado y el domingo?

_____

2 **Lee y calcula.**

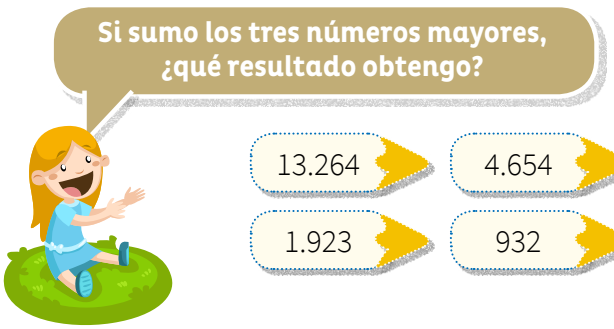

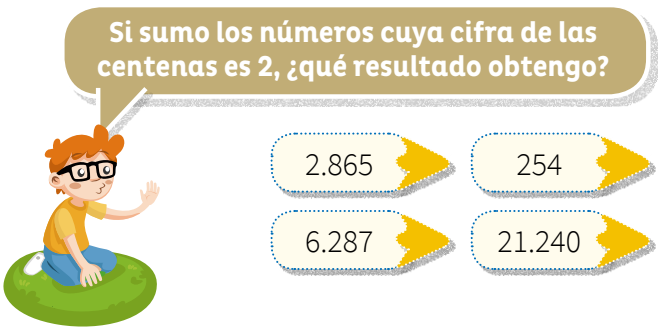

3 **Colorea, con color rojo, las manzanas cuya suma es igual a 31.750.**